Lektion 4

Aufgabenblatt 1 im Bassschlüssel

Übung 1

Bestimme in dieser Übung zunächst die verschiedenen Intervalle Sekunde und Terz. Wenn du willst, zerlege die Terzen auf einem eigenen Notenblatt in ihre Sekundenbausteine, bringe heraus, ob es sich um große oder kleine Sekunden handelt und bestimme danach Art der Terz: Du kannst unter die Intervalle diese Kürzel schreiben:

große Sekunde (Ganzton) = g2	große Terz = g3
kleine Sekunde (Halbton) = k2	kleine Terz = k3

Beispiel:



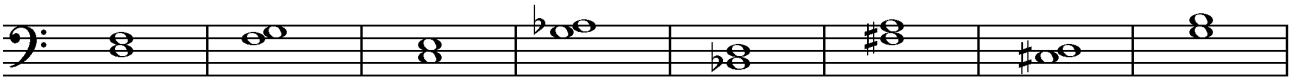





Übung 2

Drehen wir die Übung um. Unten siehst Du jeweils einen Ton und die Angabe darunter, dass auf diesem Ton ein zweiter mit dem entsprechenden Tonabstand stehen soll. Setze also jeweils über den Ton einen Weiteren in entsprechendem Abstand.



Übung 3

Schreibe über jeden der unten angegebenen Stammtöne einen Ton im Abstand einer Sekunde. Verwende keine Vorzeichen und schreibe unter die Töne, ob es sich dabei um eine große oder kleine Sekunde handelt.

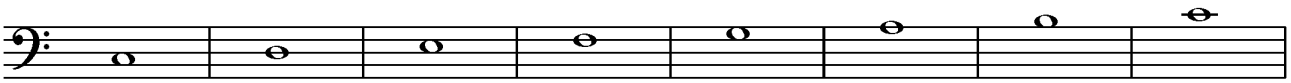

Und jetzt mache das Gleiche mit Terzen. Setze wieder über jeden angegebenen Ton eine Terz, verwende keine Vorzeichen, und schreibe unter die Noten, ob es sich um eine große oder kleine Terz handelt.